ШИФР ШЭ 7-Т-1

Олимпиадная работа
школьного этапа всероссийской
олимпиады школьников
по технологии
учащегося 7 класса
муниципального бюджетного
общеобразовательного учреждения
«Терновская основная общеобразовательная
школа Яковлевского городского округа»
Семенихой Ирины
Владимировны

Педагог-наставник:
учитель МБОУ «Терновская ООШ»
Рябцева Татьяна
Владимировна

Итого: 12б.

Председатель жюри Семифанова А.
Члены жюри: Коромова Н. Ю.
Гутара И. Н.
Рябцева Т. В.

Задания теоретического конкурса по номинации
«Культура дома, дизайн и технологии»
7 класс

1. Что в переводе с латинского означает «Декор»:
(отметьте знаком + правильный ответ)
а) «Присоединять»;
б) «Оформление»;
в) «Древний»;
г) «Украшать». + 1б

2. Установите соответствие этапов проектирования к видам деятельности:
(установите соответствие)

Этапы проектирования		Вид деятельности	
1	Подготовительный этап	а)	Испытание изделия
2	Технологический этап	б)	Разработка нескольких вариантов изделия
3	Заключительный этап	в)	Окончательная обработка изделия
		г)	Организация рабочего места

1- Г,Б, 2- А, 3 – В. 0б

3. Как называется деталь швейной машины, обозначенная на рисунке цифрой «6»:
(напиши правильный ответ)

Запиши правильное название: нитеодержатель 0б.

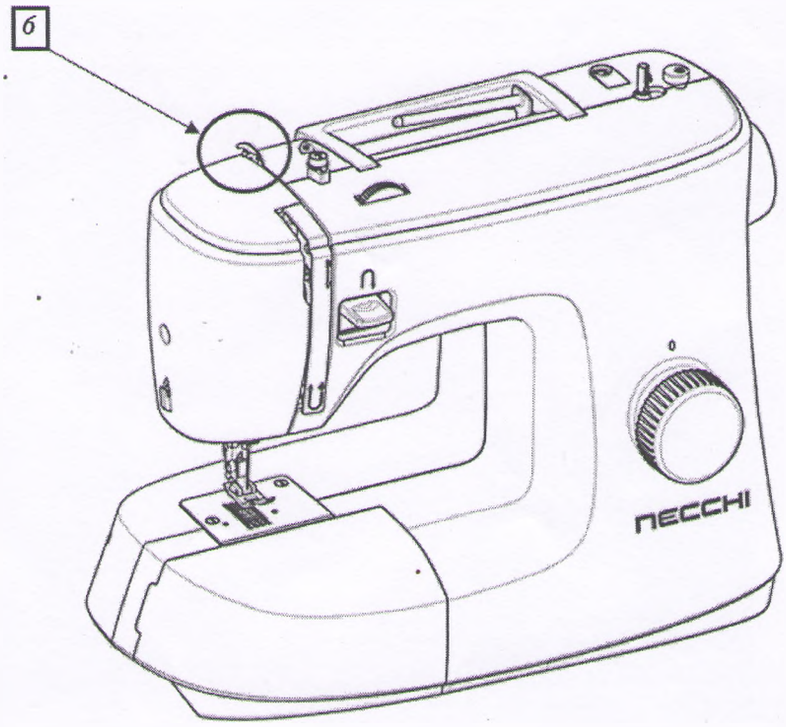

4. Визуальное и тактильное свойство поверхности материала, которое передает информацию о внутренней структуре материала, называется:
(отметьте знаком + правильный ответ)
а) Фактура; +
б) Текстура;
в) Покрытие;
г) Узор.

0б

5. Угадай зашифрованный в ребусе термин, обозначающий физико-механическое свойство ткани. Запиши правильное название:
(напиши правильный ответ)



Ответ: стойкость

0б.

6. Какое волокно при намокании теряет прочность:
(отметьте знаком + правильный ответ)
а) Шерсть;
б) Хлопок;
в) Вискоза;
+ г) Полиэстер.

0б.

7. У каких тканей свойство «сминаемость» проявляется очень слабо:
(отметьте знаком + правильные ответы)
а) Лен;
б) Нейлон;
в) Ацетат;
+ г) Микрофибра.

0б.

8. Пересадка комнатных растений – одна из основных мер для их нормального роста и хорошего самочувствия. В каком пункте описан правильный способ пересадки комнатного растения:
(отметьте знаком + правильный ответ)
а) Подготовить горшок для растения, насыпать дренажный слой, аккуратно вынуть растение из старого горшка, не стряхивать старую землю с корней, стараться сохранить целостность земляного кома вокруг корневой системы, поместить растение в новый горшок, насыпать землю, полить в соответствии с видом растения, поставить в тень на несколько дней;
+ б) Подготовить горшок для растения, насыпать дренажный слой, аккуратно вынуть растение из старого горшка и отряхнуть корни, осмотреть корни и удалить поражённые (если они есть), поместить растение в новый горшок, насыпать землю, слегка утрамбовать грунт, полить в соответствии с видом растения, поставить в тень на несколько дней;

1б.

в) Подготовить горшок для растения, насыпать дренажный слой, аккуратно вынуть растение из старого горшка, не стряхивать старую землю с корней, стараться сохранить целостность земляного кома вокруг корневой системы, поместить растение в новый горшок насыпать землю, полить в соответствии с видом растения, поставить пересаженный цветок на солнышко;

г) Подготовить горшок для растения, насыпать дренажный слой, аккуратно вынуть растение из старого горшка и отряхнуть корни, поместить растение в новый горшок, насыпать землю, слегка утрамбовать грунт, полить в соответствии с видом растения, поставить на солнышко.

9. *Для приготовления различных блюд используют плоды различных растений. Какие растения изображены на картинках:*
(выбери правильные ответы из предложенных вариантов)

А Олива	*Б* кофе

Варианты ответов: слива, кофе, олива, черешня.

1б.

10. *Какая выкройка соответствует представленной модели платья:*
(отметьте знаком + правильный ответ)

А	Б +	В
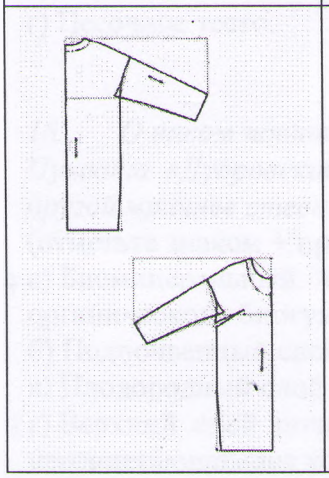	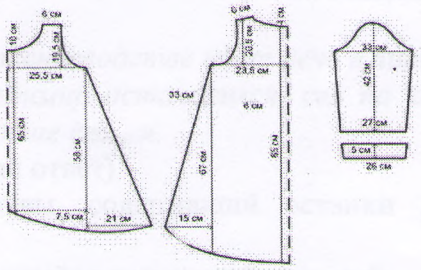	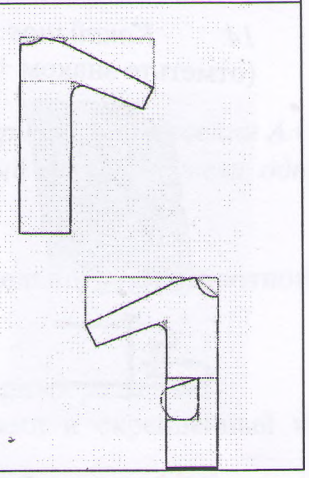

1б.

11. Что означает термин «Заметать»:
(отметьте знаком + правильный ответ)
+а) Временно закрепить подогнутый край детали сметочными стежками;
б) Соединить две детали по вогнутым линиям сметочными стежками;
в) Закрепить подогнутый срез детали стежками постоянного назначения;
г) Соединить две детали, наложенные одна на другую, стежками временного назначения.

1б.

12. Как, в соответствии с этикетом, нужно кушать маленькие печеные пирожки:
(отметьте знаком + правильный ответ)
а) Аккуратно наколоть вилочкой, положить себе на тарелку и кушать с помощью вилки и ножа;
б) Можно взять руками и кушать;
в) Взять в бумажную салфетку и кушать, не вынимая из салфетки;
+г) Взять пирожок специальными щипцами, положить себе на тарелку и кушать вилкой и ножом.

0б.

13. Что означает данный символ по уходу за одеждой:
(отметьте знаком + правильный ответ)

а) Стирать вручную при температуре не выше 40°;
б) Сушить на солнце запрещено;
в) Химическая чистка запрещена;
+г) Нельзя выкручивать (отжимать нельзя).

1б.

14. *Какой шов изображён на картинке:*
(отметьте знаком + правильный ответ)

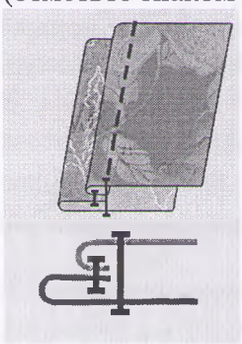

а) Шов в подгибку с закрытым срезом;
+б) Обтачной шов в кант;
в) Обтачной шов в раскол;
г) Двойной шов.

1б.

15. *Что такое гидропоника:* (отметьте знаком + правильный ответ)
а) Наука, изучающая водных животных;
б) Метод выращивания морских животных;
+в) Метод выращивания растений без почвы;
г) Наука, изучающая методы защиты от плохой погоды.

1б.

16. *Определи какой вид петли показан на инструкционной карте:*
(отметьте знаком + правильный ответ)

- Пропустить 4 петли в цепочке из воздушных петель:
- Накид на крючок
- Вытягиваем петлю из цепочки (или полотна)
- Снова накид на крючок, на крючке должно получиться 4 петли.
- Протягиваем 4-ю петлю через 3-ю и 2-ю, на крючке получается 2 петли.
- Снова накид на крючок, на крючке 3 петли
- Протягиваем последнюю петлю через остальные 2 петли

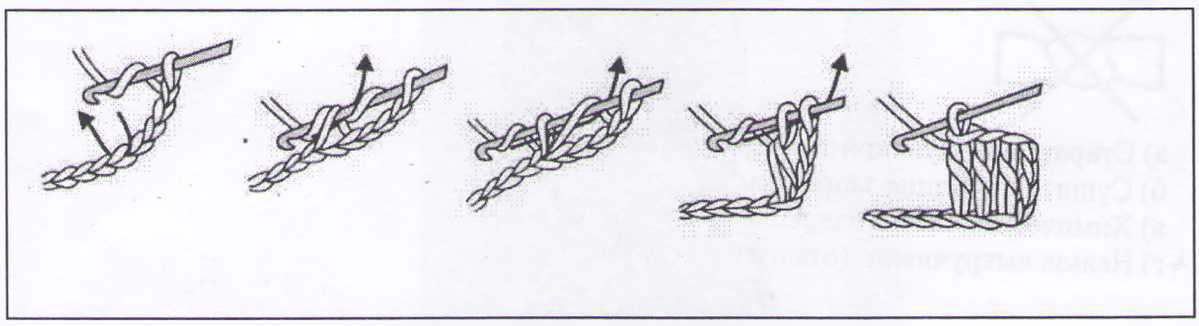

+а) Столбик с накидом;
б) Полустолбик или плотная петля;
в) Столбик без накида;
г) Двойная цепочка.

1б.

17. *Какой вид теста можно приготовить по данному рецепту: 3 штуки сырых куриных яйца, 4 столовой ложки сахарного песка, 3-5 столовых ложек муки.*
(отметьте знаком + правильный ответ)
+а) Бисквитное тесто;
б) Дрожжевое тесто;

1б.

в) Слоеное тесто;
г) Песочное тесто.

18. О каком понятии в растениеводстве идет речь в литературном произведении А.С. Пушкина «Дубровский»: «Владимир остановился, сел на холодный ***дерн,*** *и мысли одна другой мрачнее стеснились в душе его…».*
(отметьте знаком + правильный ответ)
+ а) Биоминеральный слой почвы, содержащий останки растительного и животного органического биогумуса;
б) Подпочвенный слой, находящийся под горной породой;
в) Плодородный слой почвы, предназначенный для посадки культурных растений;
+ г) Верхний слой почвы, густо заросший травянистыми растениями и скрепленный их переплетающимися корнями.

0

19. О какой исчезнувшей профессии идет речь в отрывке стихотворения:
Простой звонок тебя порой
Из дум выводит быстро: -
Алло, ответьте же «Второй», -
Твердит телефонист.
(впишите правильный ответ)

1б.

20. Выполните творческое задание:
(отметьте знаком + правильный ответ)

Вам предстоит изготовить платье для младшей сестры. Для этого платья используется выкройка плечевого изделия с цельнокроеным рукавом. Платье должно быть изготовлено из хлопчатобумажной ткани с мелким цветочным рисунком и иметь декоративную отделку. Подберите соответствующие материалы (ткань для изготовления платья), а также варианты декоративной отделки, которые возможно использовать при изготовлении платья.		
1. Подберите варианты тканей и варианты декоративной отделки		
а) Бязь однотонная 	б) Фланель	
в) Шевиот	+ г) Бязь с мелким рисунком 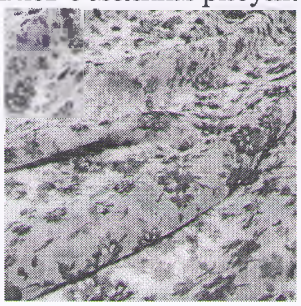	
+ д) Отделка кружевом	е) Гильоширование	+ ж) Отделка косой бейкой

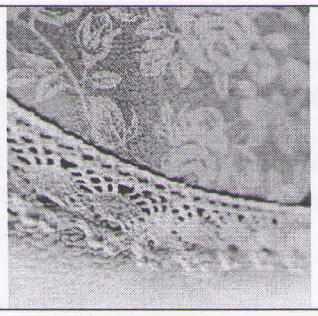	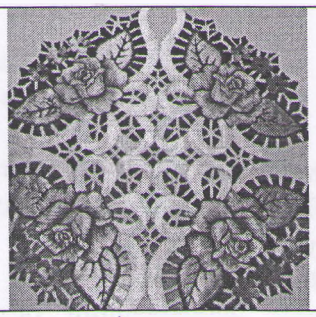	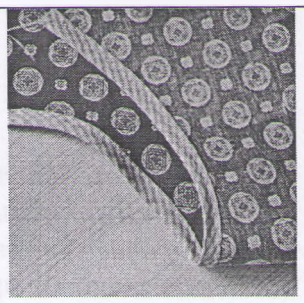
з) Вышивка	и) Батик 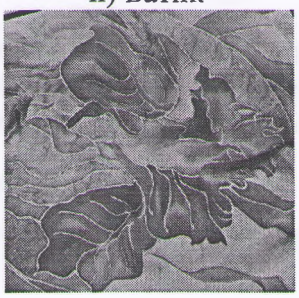	+к) Отделка оборками 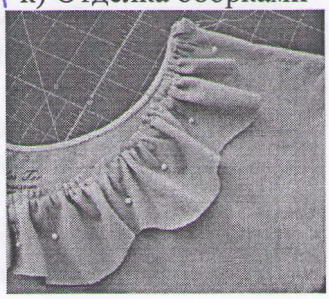

8б.

итого 12б.